梅雨・秋雨と台風

ポイント1 梅雨（つゆ）・秋雨（あきさめ）

____にあてはまる語句を確認しましょう。

■梅雨

6月ごろに，雨の日が長く続くぐずついた天気を **つゆ**（**梅雨**）という。

つゆ（梅雨）のときにできる停滞前線（ていたいぜんせん）を **梅雨前線**（ばいうぜんせん）という。
└ 図1

→梅雨前線に沿って，**帯状**（おびじょう）の雲が発達し，ぐずついた天気がしばらく続く。

梅雨前線は，**オホーツク海**（かい）気団（きだん）と **小笠原**（おがさわら）気団がぶつかってできる。

つゆ（梅雨）が終わることを **つゆ明け** という。

■秋雨

秋にできる停滞前線を **秋雨前線**（あきさめぜんせん）という。
└ 図2

図1 梅雨前線（気象衛星）



出典：日本気象協会tenki.jp
画像の無断使用転載を禁止いたします

図2 秋雨前線（天気図）

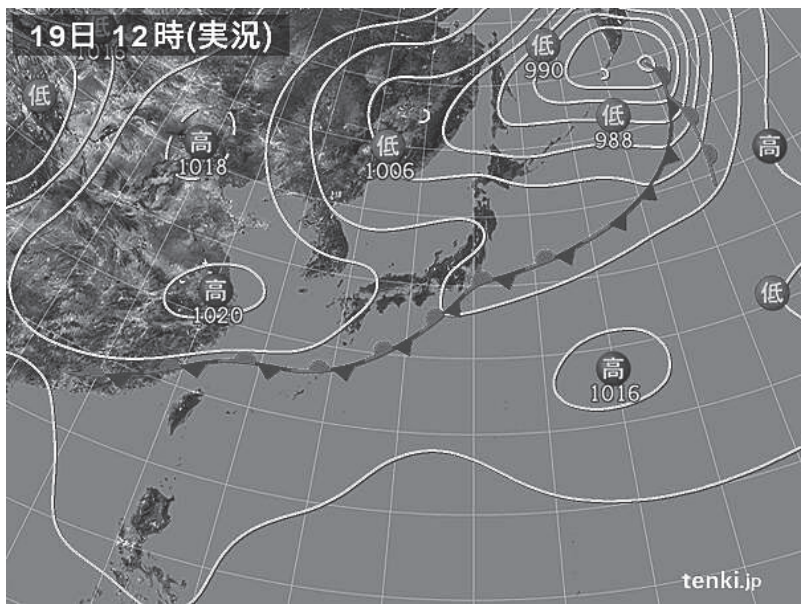

ポイント 2 台風（たいふう）

＿＿＿にあてはまる語句を確認しましょう。

熱帯地方（ねったいちほう）の海上で発生した低気圧（ていきあつ）（**熱帯低気圧**（ねったいていきあつ））のうち，

最大風速が **17.2** m/s以上（風力 **8** 以上）のものを **台風** という。 └ 図3

熱帯低気圧は発達しながら北上し，**太平洋高気圧**（たいへいようこうきあつ）（小笠原気団（おがさわらきだん））に
└ 図4

沿うように進んで日本付近にやってくる。

8月・9月は太平洋高気圧の勢力が弱まり **偏西風**（へんせいふう） に流された日本に上陸する。 └ 図5

台風は，北上して日本に上陸したり，海水温の低いところに来たりして，

海からの **水蒸気**（すいじょうき） の供給（きょうきゅう）が無くなるとおとろえる。

そして，温帯低気圧（おんたいていきあつ）や熱帯低気圧（ねったいていきあつ）（最大風速17.2m/s未満）になる。

図3 台風（気象衛星）



出典：日本気象協会tenki.jp
画像の無断使用転載を禁止いたします

図4 太平洋高気圧（天気図）

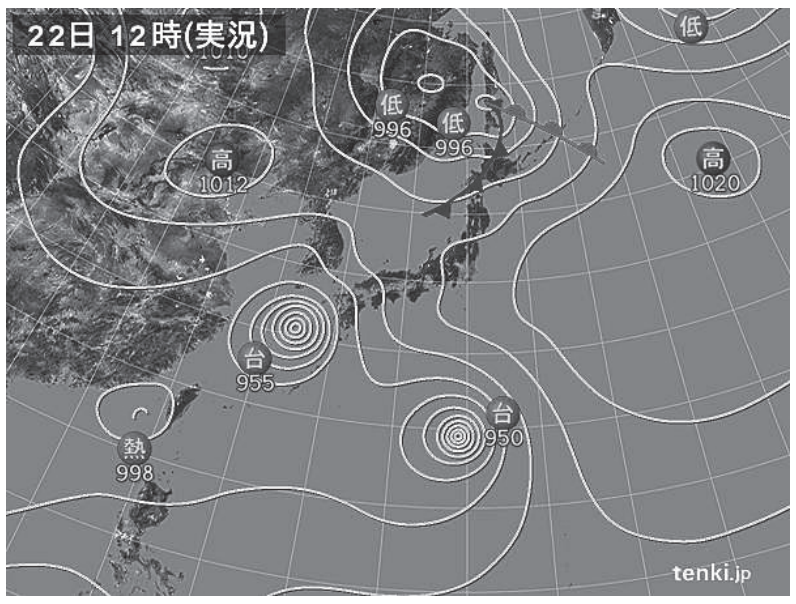

図5 台風の進路

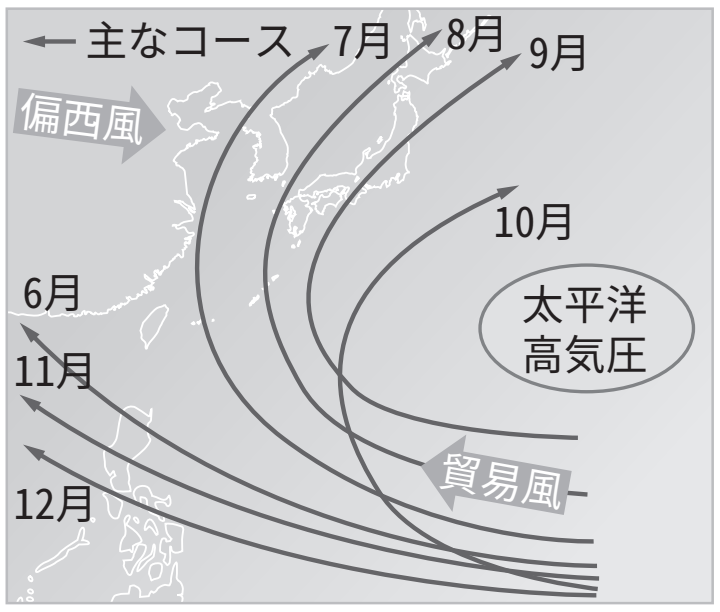

確認テスト

次の問いに答えなさい。

(1)　春から夏の間に訪れる，雨の続く時期を何というか。　**つゆ（梅雨）**

(2)　(1)の時期に日本付近にできる停滞前線を何というか。　**梅雨前線**

(3)　(1)が終わることを何というか。　**つゆ明け**

(4)　秋にできる停滞前線を何というか。　**秋雨前線**

(5)　(2)は2つの気団がぶつかってできる。この2つの気団を答えよ。　**オホーツク海気団，小笠原気団**

(6)　熱帯地方の海上で発生する低気圧を何というか。　**熱帯低気圧**

(7)　(6)のうち，最大風速が17.2m/s以上のものを何というか。　**台風**

(8)　次の（　　）にあてはまる言葉を答えよ。
台風は（　　）に沿うように発達しながら北上し，日本付近にやってくる。　**太平洋高気圧**

(9)　台風は，前線をともなうか，ともなわないか。　**ともなわない**
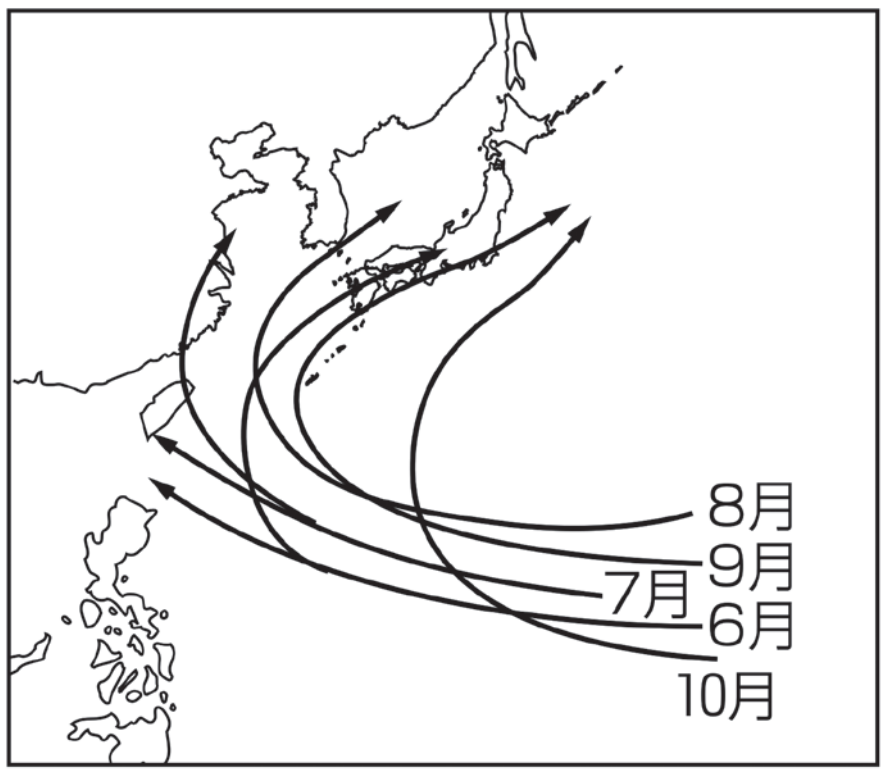
(10)　次の図は台風の進路を表している。このように，台風が大きく曲がりながら進むのは，何の影響を受けるためか。　**偏西風**